Una caixa per a quatre llapis

Nom: _____ Data: _____

1 Has de guardar quatre llapis en una caixa de cartró sense que caiguin. Mira els dos esbossos i dibuixa el teu.



Esbós A: sense tapa



Esbós B: amb tapa



Els 4 llapis

2 Escriu les tres peces de cartró que necessites per construir la teva caixa.

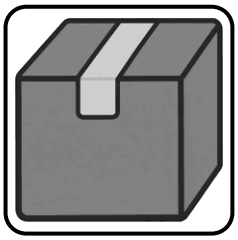

1. _____

2. _____

3. _____

3 Explica com comprovaries que a la teva caixa caben quatre llapis.



Posaria els quatre llapis _____

_____

_____