Sòlid, líquid o gas?

Nom: _____ Data: _____

1 Uneix cada cosa amb el seu estat.



una pedra



l'aire d'un globus



aigua d'un got

líquid

gas

sòlid

2 Aboquem aigua a cada recipient. Pinta l'aigua que hi cap.



la gerra d'aigua



un got alt



un bol ample

3 Marca si cada cosa manté la forma o canvia de forma.



la pedra

manté la forma

canvia de forma



l'aigua

manté la forma

canvia de forma



l'aire

manté la forma

canvia de forma