Quadrilàters: quadrat, rectangle, rombe i trapezi

Nom: _____ Data: _____

1 Mira les cinc figures. Compta els costats i els vèrtexs (les puntes) de cadascuna i escriu-ne el nombre.

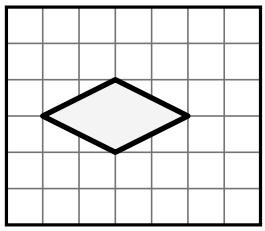

A

costats ☐

vèrtexs ☐

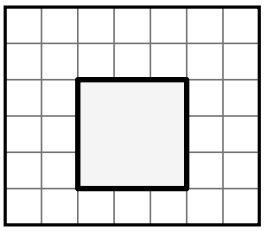

B

costats ☐

vèrtexs ☐

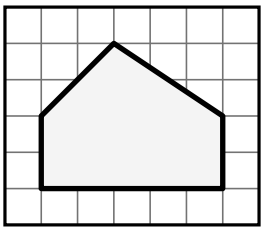

C

costats ☐

vèrtexs ☐

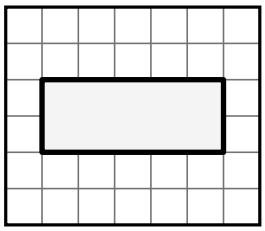

D

costats ☐

vèrtexs ☐

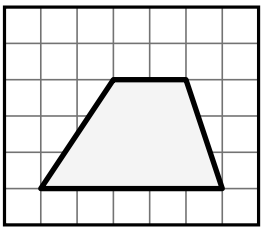

E

costats ☐

vèrtexs ☐

2 Els costats paral·lels no es toquen mai, ni que els allarguis. Pinta de blau un parell de costats paral·lels i de verd l'altre parell, si n'hi ha. Marca amb un quadradet vermell cada angle recte.

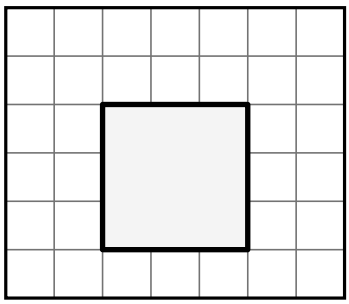

B

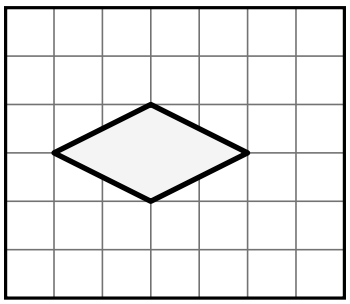

A

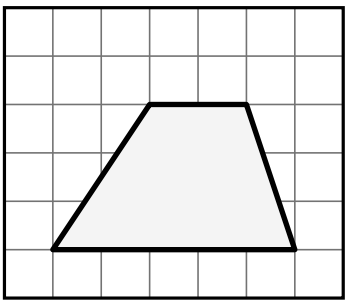

E

3 Un quadrilàter és una figura amb exactament 4 costats. Encercla les lletres de les figures que compleixen cada frase.

És un quadrilàter (4 costats). **A** **B** **C** **D** **E**

Té els 4 angles rectes. **A** **B** **C** **D** **E**

Té els 4 costats iguals. **A** **B** **C** **D** **E**

4 Dibuixa a la quadrícula un quadrilàter amb els 4 angles rectes i, a l'altra, una figura que no sigui quadrilàter. Escriu-ne el nom.





Nom: _____



Nom: _____