El plànol del barri: de la biblioteca a la font

Nom: _____ Data: _____

1 Al plànol hi ha quatre llocs: l'escola, la biblioteca, el parc i la font. Les coordenades s'escriuen (columna, fila). Escriu quin lloc hi ha a cada coordenada.

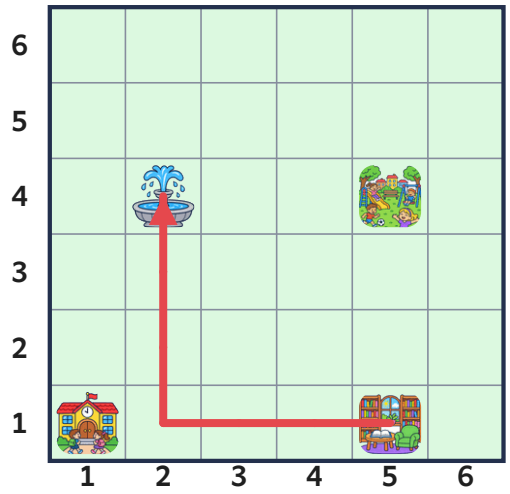

(1, 1) escola

(5, 1) biblioteca

(5, 4) parc

(2, 4) font

2 Surt de la biblioteca (5, 1) i segueix les targetes, una casella per targeta. Marca el camí al plànol de dalt i escriu on arribes.

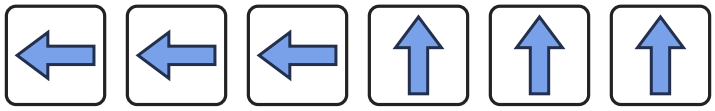

Arribo a la font

3 Ara vols anar de la font (2, 4) a l'escola (1, 1). Dibuixa una fletxa a cada targeta per escriure el camí més curt.

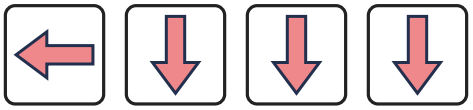

El camí té 4 passos.

4 En aquesta quadrícula buida no hi ha obstacles. Surt del punt vermell, ves 3 caselles a la dreta i després 1 cap amunt. Dibuixa el camí i compta els moviments.

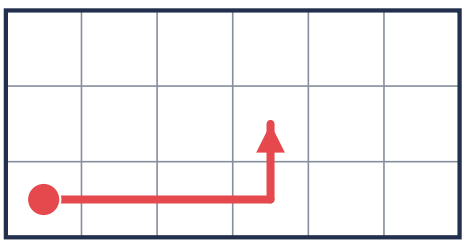

Moviments en total: 4

3 horitzontals i 1 vertical.