Ous a Setmana Santa: comptem i calculem

Nom: _____ Data: _____

1 Dos panells d'ous de cartró. Cada barra són 10 ous i cada quadret, 1. Escriu quants ous hi ha en total.

Panell 1: 42 ous



Panell 2: 28 ous

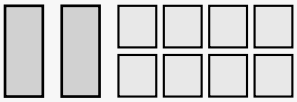

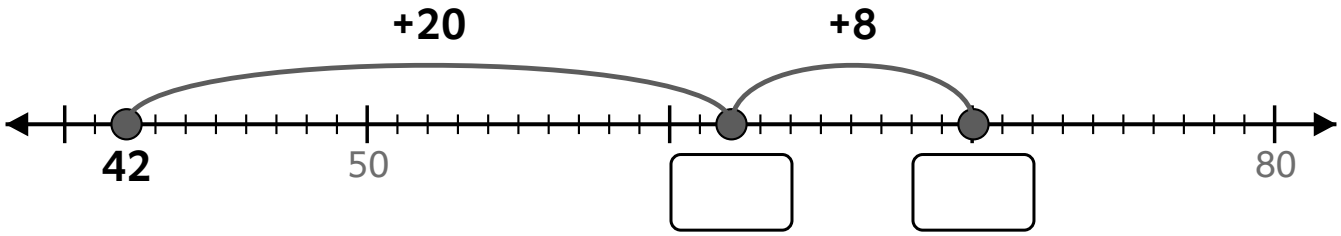



42 + 28 = ____ ous

2 Quants ous més hi ha al panell 1 que al panell 2? Escriu els salts cap enrere.

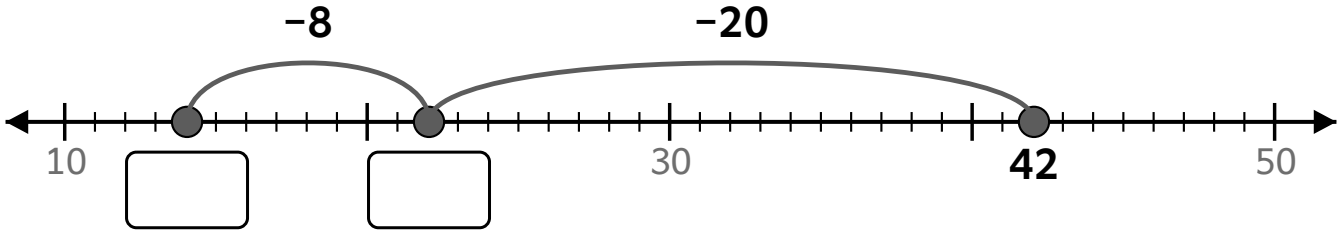

42 − 28 = ____ ous més

3 Comprova la suma amb desenes i unitats. Completa la taula.

	Desenes	Unitats
42	4	2
28	2	8
Total		